1. Uyanır uyanmaz pencereyi açıp dışarı baktım. Bu cümledeki "pencere" kelimesini duyduğumuzda aklımıza ilk olarak "aydınlatmak, havalandırmak amacıyla kullanılan açıklık" gelir. Bu cümlede "pencere" sözcüğü aklımıza ilk gelen anlamıyla kullanıldığından gerçek anlam taşımaktadır.

Buna göre aşağıdaki cümlelerden hangisinde altı çizili sözcük gerçek anlamda kullanılmamıştır?

A) Bu tarz haberler telefonda verilmez.
B) Uzaktaki akrabalarımızla iletişim kurmak için mektup kullanıyoruz.
C) Gömleğinin yakasındaki lekeyi annesi de çıkaramamış.
D) Ağır iş temposu yüzünden bize zaman ayıramıyor.

2. **Aşağıdakilerin hangisinde cümlenin anlamına uygun bir deyim kullanılmamıştır?**

A) Bu görev, mesleğine de uygun olduğundan, Mustafa için biçilmiş kaftandı.
B) Derdini onunla paylaşabilirsin, onun ağzında bakla ıslanmaz.
C) Önceden birbirlerini çekemeyen bu iki kişinin şimdi aralarından su sızmıyor.
D) Olayla alakam olmamasına rağmen kabak benim başıma patladı.

3.
- Önümüzde aşılmayı bekleyen kuru tepeler uzanıyordu.
- Hazırladığı projeyi kuru bir anlatımla sundu.
- Çoğu zaman kuru ekmekle öğün geçirirdik.
- Kampa gittiğimizde kuru dalları toplayıp ateş yakardık.

Aşağıdakilerden hangisi "kuru" sözcüğünün bu cümlelerde kazandığı anlamlardan biri değildir?

A) Akıcı olmayan, duygudan yoksun
B) Zayıf, çelimsiz
C) Üzerinde bitki olmayan
D) Canlılığını yitirmiş

4. **Aşağıdaki atasözlerinden hangisi konusu bakımından diğerlerinden farklıdır?**

A) Boş gezmektense bedava çalışmak yeğdir.
B) Emek olmadan yemek olmaz.
C) Akan su yosun tutmaz.
D) Lafla peynir gemisi yürümez.

www.adimadimsinav.com

5. **Aşağıdaki dizelerin hangisinde zıt anlamlı sözcükler birlikte kullanılmamıştır?**

A) Hapsolmuş bir şafak gibi derinde
Zamana gülecek hüznün ve neşen
B) Sakla yiğitliği korkaklığı sevgiyi
Kini sakın saklama
C) Bir kibrit çakarsan elbet yanarım
Gözyaşım dökülür çağlarım ey dost
D) Hayatta yok dikili ağacım.
Ne günahım ne de sevabım

6. Yazılarımdaki şiirsellik, sıcaklık kendime karşı dürüst olmaya çalışmamdan kaynaklanıyor. Kendimi aldatırsam okurlarımı da aldatmış olurum. Okurlarım bana inanıyor, ben de inandığım şeyleri yazıyorum. Modaya uymak, tribünlere oynamak, herkesin hoşlanacağı şeyler yazmak gibi kaygılarım yok.

Bu parçada geçen altı çizili sözün cümleye kattığı anlam aşağıdakilerden hangisidir?

A) Okurların beğenisine yönelik eser vermek
B) Kendi doğrularıyla hareket etmek
C) Kendi gibi olmak
D) Okurun eleştirilerini önemsemek

7. I. "Genç Mucitler" ödülünü alabilmek uğruna durmadan çalıştı.
II. Durumu tam anlayamadığı için tepki vermedi.
III. Sırasını takip etmediğinden işlerini yaptıramadı.
IV. Artık kimseye güvenemiyorum çünkü herkes kendi çıkarlarını düşünüyor.

Numaralanmış cümlelerden hangisinde "amaç-sonuç" ilişkisi vardır?

A) I. B) II. C) III. D) IV.

8. **Aşağıdaki dizelerden hangisinde abartma vardır?**

A) Yorgunsun, uzaklardan gelmişsin
Yitirmişsin neyin varsa birer birer
B) Nasıl hatırlamazsın o türküyü
Gök parçası, dal demeti, kuş tüyü
C) Ruhumun en güzel gıdası kitap
Odur benim candan dostum, yoldaşım
D) Sıladan ayrıyım gözümde yaşlar
Sel olup akacak bir gün derinden

9. Çekim ekleri, sözcüğe yeni bir anlam kazandırmaz. Ancak sözcüğün diğer sözcüklerle bağ kurmasını ve cümlede farklı görevler almasını sağlar. Yapım ekleri ise sözcüğe yeni bir anlam kazandırır.

Buna göre aşağıdaki altı çizili sözcüklerden hangisi hem yapım hem de çekim eki almıştır?

A) Parasıyla ev için bir şeyler almak istiyormuş.
B) Hayvanlar âleminde aslanın farklı bir yeri vardır.
C) Yoldaki çizgiler sayesinde araçlarımızı daha rahat kullanıyoruz.
D) Denizdeki tek hücreli canlılar belki de dünyanın en eski canlı örnekleridir.

10. **Aşağıdaki cümlelerden hangisinde yazım yanlışı yoktur?**

A) Mağazanın açılışı 13 Ocak Salı günü yapılacak.
B) TTK'nın hazırladığı belgesel ilgiyle izlendi.
C) Voleybol turnuvası için her sınıftan 2'şer takım çıktı.
D) Yazın Güneş'in altında çalışmak çok zordu.

www.adimadimsinav.com

11.
- Tırnak içinde olmayan alıntı cümlelerinden sonra kullanılır.
- Hitap için kullanılan kelimelerden sonra kullanılır.
- Anlam karışıklığını gidermek için kullanılır.
- Sıralı cümleleri birbirinden ayırmak için kullanılır.

Aşağıdakilerden hangisinde virgül (,) yukarıda verilen görevlerinin dışında kullanılmıştır?

A) Nöbetçi, masasının önünde ziyaretçileri bekliyordu.
B) Fırtınadan, yağmurdan ve soğuktan etkilenmemek için kendimize baraka yaptık.
C) Arkadaşlar, söyleyeceklerimi lütfen dikkatle dinleyin!
D) Toplantı başlamadan önce masaları dolaştı, kendisi için ayrılan bölümü buldu.

12. **Aşağıdaki cümlelerin hangisinde ismin yerini tutan birden fazla sözcük vardır?**

A) Onun gelmesini istemiyorsan bileti başkasına verebilirsin.
B) Bu evi hepimiz çok beğendik.
C) Elindeki poşetleri şuraya yavaşça bırakabilirsin.
D) Öğrencilerin birçoğu verilen ödevi zamanında teslim etti.

13. **Aşağıdaki cümlelerin hangisinde "-ler/- lar" eki, altı çizili sözcüğe "benzerleri" anlamını katmıştır?**

A) Az sonra Zeynepler bize gelecek.
B) Hasretinden denizler kadar gözyaşı döktüm.
C) Bu millet daha nice Kanuniler yetiştirecektir.
D) On yaşlarında bir çocuk seni sordu.

14. Yazar ilk romanını henüz on iki yaşındayken yazmıştır. Ne acıdır ki, Aksaray yangınında kül olur o ilk göz ağrısı. Geriye ismi kalır yadigâr: "Gülbahar Hanım". Daha sonra meşhur romanı "Şık"ı yazacaktır. Etrafındakiler kitabı okurlar ve hemen romanı Ahmet Mithat Efendi'ye götürmesini söylerler. Yazar romanı henüz tamamlamamışsa da Ahmet Mithat Efendi'ye gönderir. Ahmet Mithat Efendi, bir iki gün sonra gazetedeki sütununa yazı yazarak "Şık" romancısını matbaaya davet edecektir. Genç yazar, heyecandan titreyerek matbaaya gider. Ahmet Mithat, karşısında daha çocuk denebilecek yaştaki birini görünce şaşırır ve romanı onun yazdığına inanmaz.

Bu parçada aşağıdakilerden hangisine değinilmemiştir?

A) Yazarın yazmaya küçük yaşlarda başladığına
B) Yazarın eserlerinde kendi yaşamını anlattığına
C) Ahmet Mithat Efendi'nin yazarlık alanında önemli biri olarak görüldüğüne
D) Yazarın, yaşından büyük bir başarı gösterdiğine

www.adimadimsinav.com

15. O küçücük odada soluğun
Mavi resimler çizer havaya
Avludaki kiraz içini çeker
Elma, armut, akasya

Bu dizelerde kullanılan söz sanatı aşağıdakilerden hangisidir?

A) Karşıtlık
B) Benzetme
C) Abartma
D) Kişileştirme

16. İskeleye yanaşan vapurun düdüğüyle kendime gelmiştim. Hava çelik bir ustura gibi soğuktu ve kışın en acımasız günlerinden biri yaşanıyordu. Buna rağmen güverteye çıkarak bir koltuğa oturdum. Ağır ağır ilerleyen vapurdan boğaz bir başka güzel görünüyordu. Yavaşça doğruldum oturduğum koltuktan ve güverte korkuluklarına doğru ağır ağır ilerlemeye başladım. Korkuluklara tutundum ve denizin derinliklerine doğru uzun uzun baktım. O an anladım İstanbul'u terketmekte ne büyük hata yaptığımı. O günden beri de İstanbul'dan bir daha ayrılmadım.

Bu parça aşağıdaki metin türlerinin hangisinden alınmış olabilir?

A) Tiyatro
B) Gezi yazısı
C) Anı
D) Mektup

www.adimadimsinav.com

17. "Satılmıyor" gerekçesiyle şiir dizisini yayından kaldıran büyük yayınevlerine her gün yenileri ekleniyor. Sayısız şiir dergisinin çıktığı; şiir seçkilerinin, yıllıkların peş peşe yayımlandığı bir dönemde üstelik. "Bir şiir seçkisi yüz şiir kitabına bedeldir." deniyor âdeta. Tadımlık olan doyumluk olanın yerine geçer oldu. Ancak şiir kitaplarının yeterince satmıyor oluşu sadece şimdiye özgü bir durum değil. İyi şiir, her zaman az satılmadı mı? Eskiden de öyleydi ama medyatik olmak, popüler olmak bugün olduğu kadar prim yapmıyordu, göz boyamıyordu.

Bu parçada asıl anlatılmak istenen aşağıdakilerden hangisidir?

A) Şiirin her zaman popüler bir tür olduğu
B) Şiire gereken ilginin gösterilmediği
C) Şiirin toplumdan uzak olduğu
D) Şiirin insanlara yol gösteremediği

18. Edebiyatımızın daha da gelişmesi için sanatçılar işçinin, köylünün yaşamına daha çok katılmalı; oradan edinecekleri zengin izlenimlerle yeni yapıtlar oluşturmalı. Köy yaşamının verilmesinde son yıllarda bir ölçüde başarılı olunmuş ancak işçi yaşamı henüz yeteri kadar ele alınmamıştır. Genç sanatçıların buna yönelmeleri çok yerinde olacaktır. Ancak bu sorunlara eğilecek sanatçıların estetik titizliklerini artırmaları gerekiyor. Bu noktada açık verenler, ne topluma ne de edebiyata yararlı olabilirler.

Bu parçada aşağıdakilerden hangisine <u>değinilmemiştir</u>?

A) Sanatçıların toplumla iç içe olması gerektiğine
B) Sanatçıların eserlerinde işçi yaşamına yeteri kadar yer vermediğine
C) Yeni sanatçıların dili başarılı bir şekilde kullanmadığına
D) Dili kullanma konusunda başarılı olamayan yazarların topluma yararlı olamayacağına

19. Masallarımızın ünlü kahramanı Keloğlan; çoğu kez kimsesiz, dul bir kadının oğlu olarak çıkar karşımıza. Üstü başı perişandır ve bu durumu çevresince alaya alınır, küçümsenir. Ne var ki o; bunlara aldırmaz, ses çıkarmaz ancak ezilmek istendiği zaman kötülerle güçlülerle savaşmaktan kaçınmaz. Çelimsiz ama beceriklidir. Bir şeye karar verdi mi sonuna kadar direnir. Türlü oyunlara başvurur. Kötüleri, devleri, cambazları, bu yolla dize getirir.

Bu parçada Keloğlan'la ilgili aşağıdakilerden hangisine <u>değinilmemiştir</u>?

A) Etrafındaki insanlar tarafından görünüşüyle dalga geçildiğine
B) İnsanların onun başarıya ulaşamayacağını düşündüğüne
C) Kendisine zarar verilmeye kalkışıldığında kendisini savunduğuna
D) Kimi zaman hayalî varlıklarla mücadele ettiğine

20. Aynı sokak üzerinde bulunan ayakkabıcı, berber, çiçekçi, dişçi ve eczacı hakkında şunlar bilinmektedir:

- Dükkânlar 1'den 5'e kadar soldan sağa doğru sıralanmıştır.
- 2. dükkânda çiçek satılmaktadır.
- Dişçi, berberin hemen solundadır.
- Ayakkabıcı, eczacının sağındaki dükkânlardan birindedir.
- Son dükkân berberdir.

Buna göre aşağıdakilerden hangisi kesinlikle <u>yanlıştır</u>?

A) Dördüncü dükkân dişçidir.
B) Üçüncü dükkân ayakkabıcıdır.
C) Birinci dükkân eczanedir.
D) Çiçekçi dişçinin hemen yanındaki dükkândır.

www.adimadimsinav.com

1. Yaşımız ilerledikçe rollerimiz değişmese de sorumluluklarımız değişir. Aile içinde her zaman anne babamızın evladıyızdır. Bu rolümüz hayat boyu devam eder ancak rolümüzün sorumlulukları yaşımız ilerledikçe değişir.

Verilen bilgide vurgulanan durum aşağıdakilerden hangisidir?

A) Küçük yaşlarda üstlenilen sorumlulukların fazlalığı
B) Yaşa bağlı olarak rollerin sorumluluklarının değişebileceği
C) Hayat boyu insanların bir role sahip olacağı
D) Sorumlulukların rollerden daha fazla önemli olduğu

2. Eğitim öğretim hayatımızı tamamladıktan sonra meslek grupları içinde yer alan bir birey oluruz. İçinde yer aldığımız meslek grubunun gerektirdiği davranışlara ve kurallara uygun hareket etmeye mesleki rol denir.

Buna göre aşağıdakilerden hangisi mesleki rollere örnek gösterilemez?

A) Öğretmen
B) Doktor
C) Çiftçi
D) Kardeş

3. Toplumda yaşayan bireyler haklarını kullanırken bazı sorunlarla da karşılaşabilmektedir.

Buna göre ;

I. Yetkili makamlara dilekçe vermek
II. Sorun yokmuş gibi davranmak
III. Sorunun yaşandığı resmi kuruma başvurmak

durumlarından hangileri bu sorunların çözümünde kullanılacak yollar arasındadır?

A) Yalnız I
B) I ve II
C) I ve III
D) I,II ve III

4. **Toplumdaki sosyal yardımlaşma ve dayanışma kuruluşları aşağıdaki faydalardan hangisini sağlamaz?**

A) Toplumsal ayrımcılığı artırır.
B) Toplumda huzuru sağlar.
C) Toplumda birliktelik oluşturur.
D) İnsanlar arasındaki bağları güçlendirir.

5. Semiha İsen Ortaokulu 6.sınıf öğrencisi Azra'ya öğretmeni ön yargıları araştırması konusunda bir ödev vermiştir. Azra'da ön yargıların sebepleri ve sonuçlarıyla ilgili araştırmasını tamamlamıştır.

Buna göre Azra yaptığı araştırmada ön yargıların sonuçlarıyla ilgili aşağıdakilerden hangisine ulaşmış olamaz?

A) Arkadaş ilişkilerinin bozulmasına neden olur.
B) Toplumsal çatışmaya neden olur.
C) Toplumda ayrışmalara neden olur.
D) Toplumdaki birlikteliği güçlendirir.

6. Orta Asya'da kurulan Asya Hun Devleti tarihte bilinen ilk Türk devletidir. Devletin bilinen ilk hükümdarı Teoman'dır. Teoman'ın oğlu Mete Han, Orta Asya'da siyasi hâkimiyeti sağladıktan sonra Çin topraklarına doğru akınlara başlamıştır. Çinliler, Türk akınlarını durdurabilmek için Çin Seddi'ni yapmışlardır. Mete Han, Çin Seddi'ni kolayca aşarak Çin imparatorunu yıllık vergiye bağlamıştır.

Verilen bilgilere bakılarak aşağıdakilerden hangisine ulaşılamaz?

A) Asya Hun Devleti düşmanlarına karşı büyük başarılar kazanmıştır.
B) Asya Hun Devleti en parlak dönemini Teoman zamanında yaşamıştır.
C) Çinliler Türk akınlarını durdurabilmek için çözüm yolları aramıştır.
D) Mete Han her türlü engeli aşarak Çin üzerinde hakimiyet oluşturmuştur.

www.adimadimsinav.com

7. "Aslında Türükler (Türkler), kendilerini "güçlüler" olarak adlandırmakta haklıydılar. Ülke şartları oldukça acımasızdı ancak buna uyanlar yaşayabilirdi. Çünkü bu bölge ortalama yükseltisi 1200 ile 1400 metre arasın da değişen bir yayladır. Dağların yükseltisi ise 4000 metrenin üzerindedir. Büyük çöküntüler ve yükseklikler oluşur. Bölge çok az yağış almaktadır. Kışın şiddetli soğuklar olur, sıcaklık -50 °C'ye kadar düşer, akarsular ve göller donar."

Ünlü tarihçi Jean Paul Roux, Türkler ve Orta Asya hakkında verdiği bilgilere bakılarak;

I. Türkler zor ve çetin doğa koşullarına uyum sağlamıştır.
II. Türkler diğer milletlere karşı daha güçsüzdür.
III. iklim şartları Türklerin savaşçı özelliğini yok etmiştir.

yargılarından hangilerine ulaşılabilir?

A) Yalnız I
B) I ve II
C) I ve III
D) I,II ve III

8. Bağımsızlığına son derece düşkün olan Türkler, İslam öncesi dönemde cihan hâkimiyeti düşüncesine sahip idi. Bu düşünce, İslamiyet'in kabul edilmesinden sonra cihat anlayışı ile yaşamaya devam etti. Karahanlıların, Gaznelilerin ve Selçukluların gayrimüslimlerle mücadelesinde bu anlayış etkili oldu.

Verilen bilgiye bakılarak Türklerle ilgili aşağıdakilerden hangisine ulaşılabilir?

A) Türklerin mücadele ruhu İslamiyet sonrasında da devam etmiştir.
B) Türkler Karahanlılar Döneminde mücadele etmeyi bırakmışlardır.
C) İslamiyet'in kabulü Türklerin savaşçı özelliğini sonlandırmıştır.
D) Türkler İslamiyet'i kabul ettikten sonra bağımsızlıklarından ödün vermiştir.

9. İslamiyet'ten önce Arap Yarımadası'nda çeşitli devletler kurulmuş ama birlik sağlanamamıştı. Kabilelere bölünmüş Araplar arasında sürekli devam eden kan davaları yaygındı. Aralarında Hz. Muhammed'in de bulunduğu Mekke'nin ileri gelenleri "Hilfu'l-Fudûl" adı verilen bir topluluk oluşturdu. Bu topluluk Mekke'de zulme uğramış mazlumlara yardım etme ve zalimlerle mücadele etme kararı aldı.

Verilen bilgilere bakılarak;

I. İslamiyet öncesinde Arap Yarımadası'nda toplumsal karışıklıklar hakimdir.
II. Hz. Muhammed ve Mekke'nin ileri gelenlerinden bazıları yapılan zulümlere karşı durmuşlardır.
III. Hilfu'l-Fudûl adı verilen topluluk Arap Yarımadası'nda haksızlıkların önüne geçmeye çalışmıştır.

yargılarından hangilerine ulaşılabilir?

A) Yalnız I
B) I ve II
C) II ve III
D) I,II ve III

10. Türkiye Selçuklu Devleti, ilk Türk beyliklerinin topraklarını sınırları içine katarak Anadolu'da Türk birliğini sağladı. Antalya, Sinop, Alanya, Suğdak(Kırım) gibi liman şehirlerinin alınmasıyla denizlere kıyısı olan güçlü bir devlet hâline geldi. Bir taraftan da medrese, hamam, cami, kervansaray gibi yapılar inşa ederek Anadolu'da imar faaliyetlerinde bulundular.

Verilen bilgilere bakılara Türkiye Selçuklu Devleti ile ilgili aşağıdakilerden hangisine ulaşılamaz?

A) Anadolu'da birlik sağlamaya çalışmışlardır.
B) Haçlı birliklerine karşı mücadeleler vermişlerdir.
C) Anadolu'yu bayındır hale getirmeye çalışmışlardır.
D) Fetihlerle sınırlar genişletilmiştir.

www.adimadimsinav.com

1. **Hz. Âdem ile ilgili aşağıdakilerden hangisi söylenemez?**

A) İnsanlığın atası, ilk yaratılan insandır.
B) Kendisine on sayfa suhuf indirilmiştir.
C) İblis tarafından kandırılan ilk insandır.
D) Nemrut'a karşı mücadele eden kişidir.

2. Zor durumda kalan insanın, derdini dua ederek Yüce Allah'a açması ve O'ndan yardım dilemesi ile ilgili olan bu dua yatsı namazından sonra kılınan vitir namazının son rekâtında rükûya gidilmeden önce okunur.

Yukarıdaki metinde anlatılan dua aşağıdakilerden hangisidir?

A) Kunut duaları
B) Tahiyyat duası
C) Rabbena duaları
D) Salli ve Barik duaları

3. • "Dinin başı İslam, direği namaz, zirvesi ise cihattır."
• "Cennetin anahtarı namaz, namazın anahtarı ise abdesttir."

Bu hadislerden namaz ile ilgili aşağıdakilerden hangisi çıkarılabilir?

A) Çeşitleri vardır.
B) Vakitleri bellidir.
C) Önemli bir ibadettir.
D) İnsanı kötülükten uzaklaştırır.

4. Yüce Allah, insanlık tarihi boyunca birçok peygamber göndermiştir. Peygamberlik ilk olarak ..... ile başlamış ve ..... ile son bulmuştur.

Bu parçadaki boşluklara sırasıyla aşağıdaki peygamberlerden hangileri yazılmalıdır?

A) Hz. Nuh - Hz. Muhammed
B) Hz. Âdem - Hz. Muhammed
C) Hz. Nuh - Hz. Musa
D) Hz. Âdem - Hz. İsa

5. Mucize, Yüce Allah'ın peygamberlerin peygamberliklerini ispat etmeleri için onlara verdiği olağanüstü olaylardır.

Hz. Muhammed'in (s.a.v) en büyük mucizesi aşağıdakilerden hangisidir?

A) Ay'ı ikiye yarması
B) Mekke'yi fethetmesi
C) Küçük bir grupla başladığı davetini güçlendirmesi
D) Kimsenin benzerini yapamadığı Kur'an-ı Kerim'in ona indirilmesi

www.adimadimsinav.com

6. "O peygamberler, Allah'ın emir ve yasaklarını (insanlara) bildirirler, O'ndan korkarlar ve Allah'tan başka kimseden korkmazlardı. Hesap görücü olarak Allah yeter."

Ahzâb suresi, 39. ayet

Bu ayette peygamberlerin ortak niteliklerinden hangisi vurgulanmıştır?

A) İsmet
B) Sıdk
C) Tebliğ
D) Fetanet

7. Yüce Allah, peygamberini gizli ve açık her türlü günahtan korumuştur. Peygamberin yaptıkları en ufak hatalar bile Allah tarafından uyarılmış ve peygamberler bu hatalarını düzeltmişlerdir. Her insan gibi bir beşer olan peygamberler, hata ve günah işlemekten korunmak için Allah'tan yardım isteyerek insanlara bu konuda da örnek olmuşlardır.

Bu parçadan peygamberlerle ilgili aşağıdakilerden hangisine ulaşılamaz?

A) Günahlara karşı Allah'ın koruması altındadırlar.
B) Allah'ın dinini anlatacak kadar zekidirler.
C) İnsanlar için en güzel örnektirler.
D) İsmet sıfatına sahiptirler.

8. **Peygamberlik kavramı için Kur'an-ı Kerim'de;**

I. Nübüvvet
II. Risalet
III. Fütüvvet
IV. Vekalet

kavramlarından hangileri kullanılmıştır?

A) I ve II
B) I ve III
C) II ve III
D) III ve IV

9. Yüce Allah, insanlara doğru yolu göstermek için peygamberler göndermiş, bazı peygamberlere de suhuf ya da ilahi kitap vermiştir. Hz. Davud'a (a.s) bir ilahi kitap vererek onun insanları Allah'ın dinine davet etmesini, doğruluktan ayrılmamasını, güvenilir olmasını istemiştir.

Bu parçada Hz. Davud (a.s) ile ilgili peygamberlerin ortak niteliklerinden hangisine değinilmemiştir?

A) Tebliğ
B) Sıdk
C) Emanet
D) Fetanet

10. Hz. İsa (a.s), kendisine ilahi kitap verilen peygamberler arasında yer alır.

Bu kitap aşağıdakilerden hangidir?

A) Tevrat
B) Zebur
C) İncil
D) Kur'an-ı Kerim

www.adimadimsinav.com

1 - 3. soruları verilen görsellere göre cevaplayınız.

1. "Carol lives in a village."

Where does she live?

A) 

B) 

C)

D)

2.

Jess likes having ..... for the breakfast.

A) toast
B) olives
C) cereal
D) omelette

3. "Susan does her homework at six o'clock."

What time does she do her homework?

A)

B)

C) 

D)

4 - 8. sorularda boşluğa gelen uygun kelime ya da ifadeyi işaretleyiniz.

4. **Lots of people live in towns, so they are ..... than villages.**

A) quieter
B) smaller
C) more peaceful
D) more crowded

5. **We should go to bed early at nights to ..... early in the mornings.**

A) wake up
B) take nap
C) write diary
D) have a rest

6.

Dave : Do you like city life or village life?
Matt : I like the city life because .....
Dave : I think the city life is boring.

A) I can find everything
B) the city life is noisier
C) I want to live in a village
D) there is always traffic jam

www.adimadimsinav.com

7. Denis : What can I have for lunch?
Waiter : Do you like chips with coke?
Denis : .....; I think they are not nutritious.

A) Sorry, it is all gone
B) No, I don't like them
C) Yes, enjoy your meal
D) Sure, they are yummy

8.

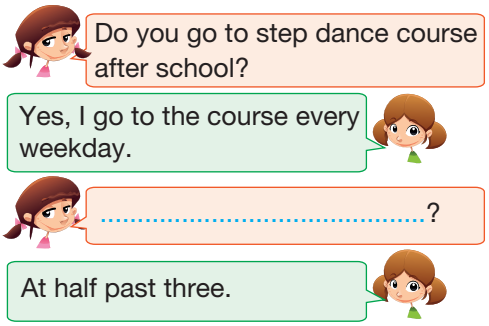

A) What time does it start
B) How can I attend the course
C) Where does the course start
D) When do you go to the school

9 - 10. soruları aşağıda verilen metne göre cevaplayınız.

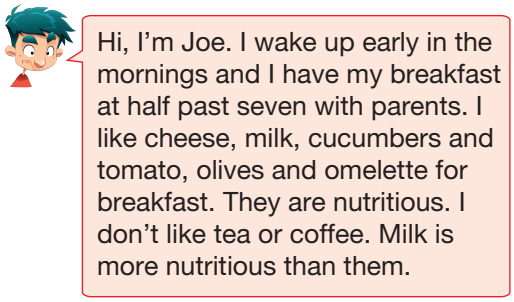

9. **Joe likes cheese, milk, cucumbers and tomato, olives and omelette for breakfast, because .....**

A) they are nutritious
B) he doesn't like breakfast
C) he likes eating junk food
D) vegetables are unhealthy

10. **Which statement is false?**

A) Joe doesn't like coffee or tea.
B) He likes eating nutritious food.
C) He drinks fruit juice for breakfast.
D) Joe wakes up early in the mornings.

www.adimadimsinav.com

1. ▲■ = 256 olduğuna göre aşağıdakilerden hangisi yanlıştır?

A) ▲ = 2 ise ■ = 8'dir.
B) ▲ = 4 ise ■ = 4'tür.
C) ▲ = 16 ise ■ = 16'dır.
D) ▲ = 256 ise ■ = 1'dir.

2. 2 · 7 – 4 : 2 + 5 · (2 + 1) işleminin sonucu kaçtır?

A) 23 B) 27 C) 30 D) 34

3.

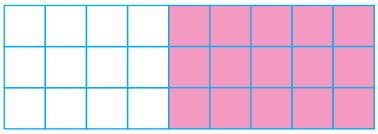

Yukarıdaki şekil eş karelerden oluşmaktadır.

Buna göre boyalı karelerin sayısı aşağıdakilerden hangisiyle hesaplanabilir?

A) 3 · (9 – 5) B) 5 · (9 – 3)
C) 5 · (9 – 4) D) 3 · (9 – 4)

4. Efe aldığı bilgisayarın parasının yarısını peşin olarak ödemiş geriye kalan kısmını da 3 taksitle ödemiştir. Her taksiti bir önceki taksitte ödediği miktarın yarısı şeklinde ödemiştir.

Efe 2. taksitte 600 lira ödediğine göre aldığı bilgisayar kaç liradır?

A) 4200 B) 3600 C) 2400 D) 1200

5. Aşağıdakilerden hangisi 120 ile 150 sayılarının ortak bölenlerinden biri değildir?

A) 10 B) 12 C) 15 D) 30

6. Bir sinema filmi için izleyicilerden 6 lira bilet ücreti ve 2 lira gözlük ücreti alınmaktadır. Bilet alan her izleyici gözlük de almıştır.

Bu sinema filmi için izleyicilerden toplam 240 lira gelir elde edildiğine göre kaç bilet satılmıştır?

A) 20 B) 30 C) 40 D) 50

7. ●7 iki basamaklı doğal sayısı 3'ün bir doğal sayı katı olduğuna göre ● yerine kaç farklı rakam yazılabilir?

A) 1 B) 2 C) 3 D) 4

8. 3 ∈ K ifadesinin anlamı aşağıdakilerden hangisidir?

A) K kümesi 3 elemanlıdır.
B) K kümesi boş kümedir.
C) 3, K kümesinin elemanı değildir.
D) 3, K kümesinin elemanıdır.

9. 126 sayısı aşağıdaki sayılardan hangisi ile toplanırsa sonuç 2'ye, 3'e ve 5'e kalansız bölünür?

A) 4 B) 12 C) 24 D) 36

www.adimadimsinav.com

10. 29 – ▲ işleminin sonucu bir asal sayı olduğuna göre ▲ aşağıdakilerden hangisi olamaz?

A) 2 B) 6 C) 10 D) 12

11. Mustafa ve Sabri farklı iki dikdörtgen çizmişlerdir. Çizdikleri dikdörtgenin kenar uzunlukları santimetre cinsinden birer asal sayıdır.

Buna göre bu iki dikdörtgenin santimetre cinsinden çevre uzunlukları aşağıdakilerden hangisi olamaz?

A) 16 ile 36 B) 14 ile 32
C) 30 ile 44 D) 38 ile 46

12. Aşağıdakilerden hangisi 2'ye kalansız bölünebilir?

A) 17 B) 23 C) 35 D) 48

13. Aşağıdakilerden hangisi negatif bir tam sayı ile ifade edilebilir?

A) Sıfırın altındaki hava sıcaklığı
B) Bir apartmanın giriş katı
C) Everest Dağı'nın yüksekliği
D) 35 lira gelir

14. Sayı doğrusunda – 7 ile 3 sayıları (–7 ile 3 sayıları hariç) arasında kaç tane tam sayı vardır?

A) 4 B) 5 C) 9 D) 10

15. Aşağıdaki sıralamalardan hangisi yanlıştır?

A) $-7 > -4$ B) $4 > -1$
C) $-1 < 6$ D) $-14 < -10$

16. İrem ve Umut bir oyun oynuyorlar. Birer sayı söyleyip mutlak değerini hesaplıyorlar. Hangisinin hesaplaması sonucu elde ettiği sayı sayı doğrusunda 0'a daha yakınsa oyunu o kazanıyor.

İrem – 3 sayısını söyleyip oyunu kazandığına göre Umut aşağıdaki sayılardan hangisini söylemiş olamaz?

A) – 7 B) – 2 C) 4 D) 6

17. 19 sayısının kaç tane doğal sayı çarpanı vardır?

A) 1 B) 2 C) 3 D) 4

18. Aşağıdaki sayılardan hangisinin mutlak değeri kendisine eşit değildir?

A) – 3 B) 0 C) 1 D) 7

19. Aşağıdakilerden hangisi kesinlikle ▲ ve ● doğal sayılarının bir doğal sayı katıdır?

A) ● + ▲ B) ● – ▲
C) ▲ · ● D) ▲ : ●

20. Sayı doğrusunda negatif tam sayıların en sağında hangi negatif tam sayı bulunur?

A) – 1 B) – 9 C) – 99 D) – 999

www.adimadimsinav.com

1.



Yukarıdaki doğa olayı ile ilgili;

I. Dünya'nın karanlık bölümünden gözlenebilir.
II. Dünya'dan Ay gözlenemez.
III. Ay dolunay evresindeyken gerçekleşir.

verilenlerden hangileri doğrudur?

A) I ve II
B) I ve III
C) II ve III
D) I, II ve III

2.

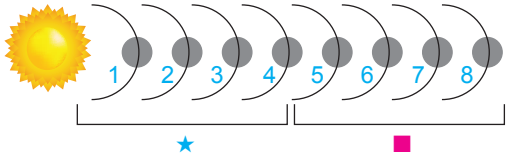

Güneş sistemindeki gezegenlerle ilgili aşağıdakilerden hangisi yanlıştır?

A) ★, karasal gezegenlerdir.
B) ■, gazsal gezegenlerdir.
C) ★, Dış gezegenlerdir.
D) ■, gezegenler jüpiter, satürn, uranüs ve neptündür.

3. Merkür ve .....▲..... uydusu olmayan gezegenlerdir.
Güneş'e en uzak gezegen .....■.....
Güneş sisteminde kızıl gezegen adıyla bilinen gezegen .....★..... dır.

Yukarıdaki ▲, ■ ve ★ ile işaretlenmiş yerlere aşağıdaki seçeneklerden hangisi gelmelidir?

	▲	■	★
A)	Venüs	Neptün	Mars
B)	Venüs	Mars	Mars
C)	Neptün	Satürn	Neptün
D)	Satürn	Neptün	Venüs

4. Güneş tutulması sırasında Ay'ın bulunduğu evre aşağıdakilerden hangisidir?

A) Dolunay
B) Yeniay
C) İlkdördün
D) Sondördün

5. Aşağıda verilen kemikler şekillerine göre gruplandırıldığında hangisi grubun dışında kalır?

A) Kol ve bacak kemikleri
B) Kaburgalar
C) Kafatası kemiği
D) Kürek kemiği

6.
- Kemik kadar sert olmayan esnek ve canlı dokudur.
- Kaygan yapıya sahip olduğundan kemiklerin kolay hareketini sağlar.

Özellikleri verilen yapı aşağıdakilerden hangisidir?

A) Kas
B) Eklem
C) Kıkırdak
D) Omurga

7. Küçük kan dolaşımının amacı aşağıdakilerden hangisidir?

A) Kanın temizlenmesini sağlamak.
B) Kanı vücuda dağıtmak.
C) Besinleri hücrelere taşımak.
D) Kalp atışını hızlandırmak.

www.adimadimsinav.com

8. Radyoda "kanamalı bir hasta için AB grubu Rh(+) kana ihtiyaç vardır." ilanını duyarak kan bağışı yapmak isteyen kişilerden hangisi bu hastaya kan bağışı yapabilir?

A) Öznur : A Rh (+)
B) Ali : B Rh (+)
C) Aygül : AB Rh (–)
D) Duru : AB Rh (+)

9.

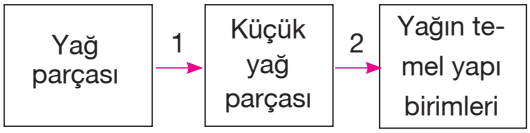

Şemada yağın sindirimi gösterilmiştir.
Buna göre şemayla ilgili aşağıdakilerden hangisi yanlıştır?

A) 1 ve 2 ince bağırsakta gerçekleşir.
B) 1 numaralı olayda enzim kullanılmaz.
C) 2 numaralı olayda enzim kullanılır.
D) 1 numaralı olayı sağlayan sıvı mideden salgılanır.

10. Görselde verilen organın yapısındaki kaslarla ilgili aşağıdakilerden hangisi yanlıştır?

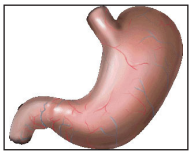

A) Düz kaslardan oluşur.
B) Çabuk yorulur.
C) İsteğimiz dışında çalışır.
D) Kasılmaları yavaş ve düzenlidir.

11. Kemiklerle ilgili;
I. Cansız yapılardır.
II. Esneme yeteneğine sahiptir.
III. Kalsiyum ve fosfor gibi mineralleri depolar.
Verilenlerden hangileri doğrudur?

A) I ve II
B) I ve III
C) II ve III
D) I, II ve III

12. Aşağıda verilen örnek ve kemik çeşidi eşleştirmelerinden hangisi yanlıştır?

	Örnek	Kemik Çeşidi
A)	Bacak kemikleri	Uzun kemik
B)	El ve ayak bileklerindeki kemikler	Kısa kemik
C)	Göğüs kemiği	Yassı kemik
D)	Kaburgalar	Kısa kemik

13. Aşağıda soluk alma sırasında akciğer hacminin zamanla değişimi grafikleri verilmiştir. Doğru çizilen grafik hangisidir?

A)
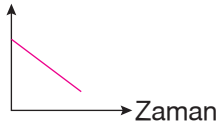

B)

C)
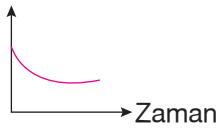

D)
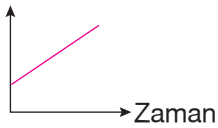

14.
1. Yutak - Burun - Gırtlak - Soluk borusu - Bronşcuklar - Bronşlar
2. Yutak - Burun - Soluk borusu - Gırtlak - Bronşlar - Bronşcuklar
3. Burun - Yutak - Gırtlak - Soluk borusu - Bronşlar - Bronşcuklar
4. Burun - Yutak - Soluk borusu - Gırtlak - Bronşlar - Bronşcuklar

Yukarıda kaç numaralı satırda, soluk alma sırasında havanın geçtiği yapı ve organlar doğru sırayla verilmiştir.

A) 1. B) 2. C) 3. D) 4.

www.adimadimsinav.com

15. ☐ Soluk alma sırasında diyafram kasılır ve düzleşir.
☐ Soluk verme sırasında karbondioksitçe zengin kan solunum sisteminden dışarı atılır.
☐ Soluk verme sırasında karbondioksit kılcal damarlara geçer.

Yukarıda verilen bilgileri doğru (D) ve yanlış (Y) olarak işaretlersek aşağıdaki sonuçlardan hangisini elde ederiz?

	A)	B)	C)	D)
	D	Y	Y	D
	D	Y	D	D
	Y	D	D	D

16. I. Göğüs kafesi genişler.
II. Soluk alma gerçekleşir.
III. Akciğerin hacmi büyür.

Diyafram kasının kasılması sırasında gerçekleşen olayda yukarıda verilenlerden hangisi ya da hangileri gerçekleşir?

A) Yalnız I
B) I ve II
C) II ve III
D) I, II ve III

17. Aşağıda verilen kas çeşitlerinden hangisi çalışma şekli bakımından diğerlerinden farklıdır?

A)
B)
C) 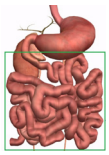
D) 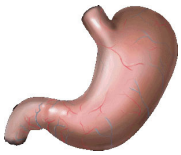

18. I. Eklemler büyüme döneminde boyun uzamasını sağlar.
II. Eklem iki kemiği birbirine bağlar.
III. Eklemler hareket etme derecelerine göre üçe ayrılır.

Eklem sıvısının görevleri ile ilgili yukarıda verilen bilgilerden hangisi ya da hangileri doğrudur?

A) Yalnız I
B) Yanlız II
C) II ve III
D) I, II ve III

19. Karbonhidratlar, yağlar ve proteinlerin hücre zarından geçebilmeleri için aşağıdakilerden hangisi gereklidir?

A) Karbon, hidrojen ve oksijen taşımaları.
B) Enerji verici besin olmaları.
C) En küçük yapı taşlarına ayrılmış olmaları.
D) Düzenleyici besin olmaları.

20. I. İç organları dış etkenlerden korur.
II. Vücuda şekil verir.
III. Vücut hareketlerini kontrol eder.

Yukarıda verilenlerden hangisi ya da hangileri iskeletin görevlerindendir?

A) I ve II
B) I ve III
C) II ve III
D) I, II ve III

www.adimadimsinav.com